学習日：　　月　　日

2021 年度　早稲田中学【算数】大問２

（１）
図は正六角形１つと、正五角形２つを並べたものです。
角アの大きさは何度ですか。

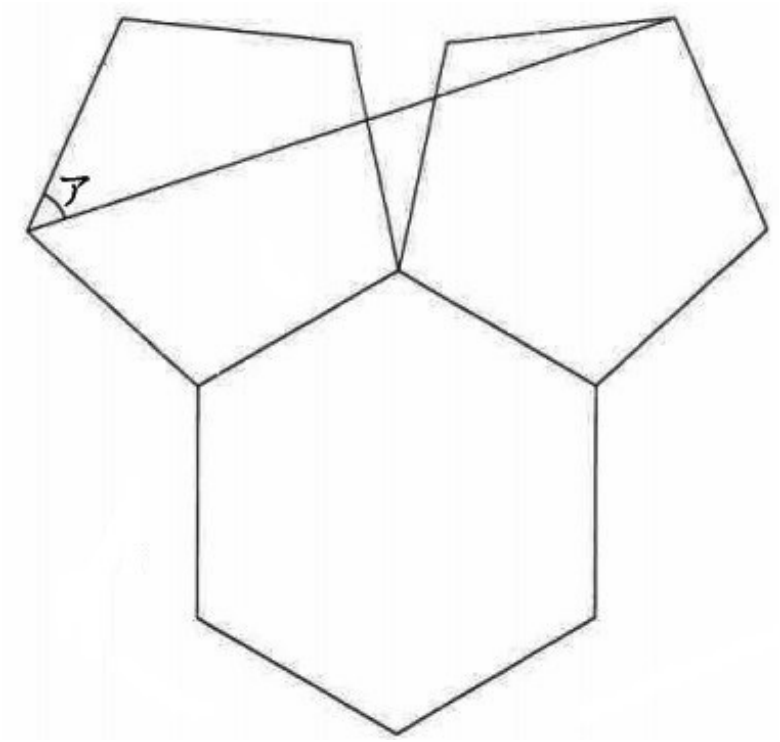

（２）
図の四角形ＡＢＣＤの面積が 63 ｃｍ^{2}のとき、
五角形ＡＢＣＥＦの面積は何ｃｍ^{2}ですか。

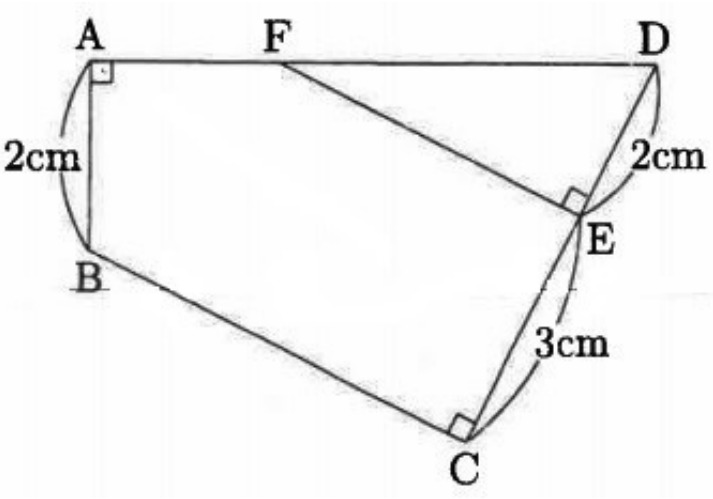
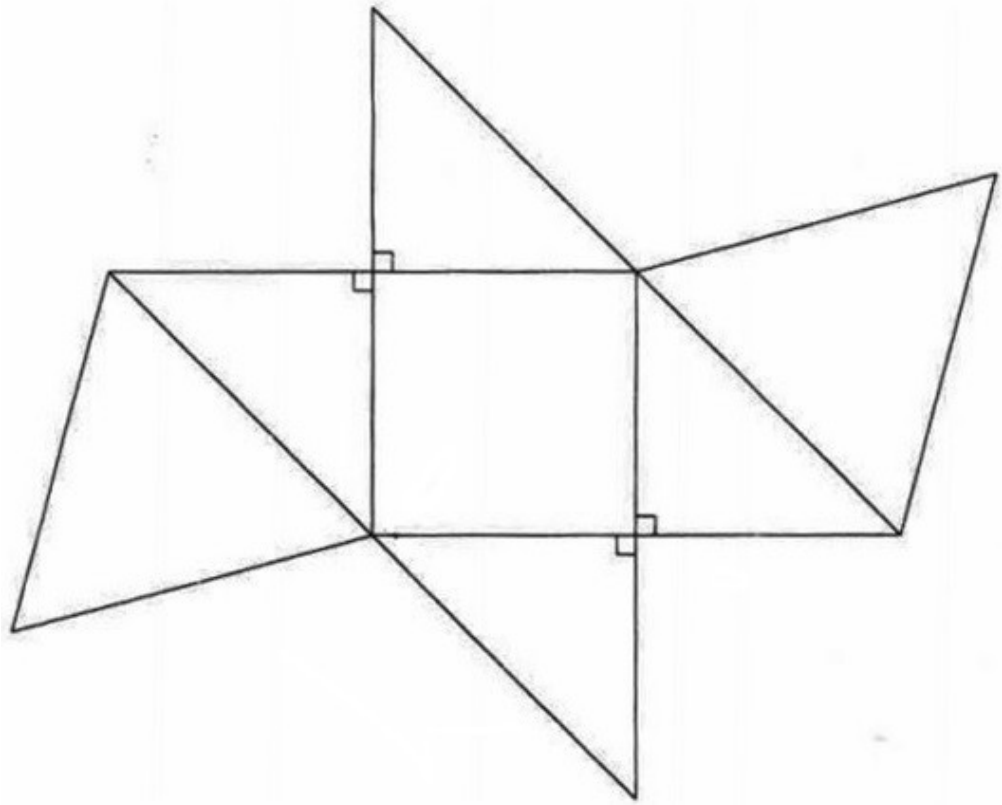
（３）
図のように、１辺の長さが６ｃｍの正方形１つと、直角二等辺三角形４つ、
正三角形２つを並べると、ある立体の展開図になります。
この図を組み立ててできる立体の体積は何ｃｍ^{3}ですか。